PARTIE I
Valeur totale : 50 %

Instructions: Ombrez la lettre correspondant à la bonne réponse sur votre grille de notation informatisée.

1. Quel terme décrit une liste de conditions qui, si elles ne sont pas acceptées, peuvent entraîner la guerre?

   (A) alliance
   (B) armistice
   (C) traité
   (D) ultimatum

2. Quels pays étaient membres de la Triple Entente au début de la Première Guerre mondiale?

   (A) La Grande-Bretagne, l'Autriche-Hongrie, la France
   (B) La Grande-Bretagne, la France et la Russie
   (C) La Grande-Bretagne, l'Allemagne, l'Autriche-Hongrie
   (D) La Grande-Bretagne, la Russie et les États-Unis

3. Quel terme signifie la loyauté à son pays?

   (A) le capitalisme
   (B) le colonialisme
   (C) le militarisme
   (D) le nationalisme

4. Dans quel ordre se sont déroulés les événements qui ont mené à la Première Guerre mondiale?

   1. L'assassinat de l'archiduc Ferdinand
   2. L'ultimatum donné à la Serbie
   3. La mobilisation en Russie
   4. L'invasion de la Belgique par l'Allemagne

   (A) 1, 2, 3, 4
   (B) 2, 3, 4, 1
   (C) 3, 1, 2, 4
   (D) 4, 3, 1, 2

5. Quel accord a mis fin à la participation de la Russie à la Première Guerre mondiale?

   (A) l'Armistice du 11 novembre
   (B) le traité de Brest-Litovsk
   (C) le traité de Saint-Germain
   (D) le traité de Versailles

6. Quelle bataille a entraîné l'impasse de la guerre des tranchées sur le front occidental en septembre 1914?

   (A) la bataille de la Marne
   (B) la bataille de la Somme
   (C) la bataille de Tannenberg
   (D) la bataille de Verdun

7. Au cours de quelle bataille sur le front occidental le char d'assaut a t-il été utilisé pour la première fois?

(A) la bataille de Beaumont-Hamel
(B) la bataille de la Somme
(C) la bataille de Tannenberg
(D) la bataille de Verdun

8. Quelle stratégie de guerre est expliquée par la carte ci-dessous?

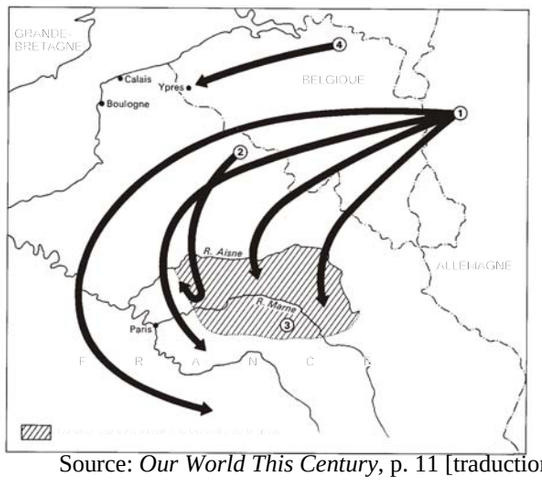

Source: *Our World This Century*, p. 11 [traduction libre]

(A) le blitzkrieg
(B) le plan Molotov
(C) le plan XV11
(D) le plan Schlieffen

9. Quelle cause de la Première Guerre mondiale la citation ci-dessous reflète-t-elle?

> *« Si je le pouvais, j'annexerais les planètes. »*
> ***- Cecil Rhodes, 1908***

(A) la course aux armements
(B) la rivalité économique
(C) les alliances militaires
(D) le nationalisme

10. Quel terme décrit la politique qui consiste pour une nation à étendre son pouvoir en s'appropriant d'autres territoires?

(A) le capitalisme
(B) le colonialisme
(C) l'impérialisme
(D) le nationalisme

11. Quelle cause majeure de la Première Guerre mondiale est clairement illustrée par la citation ci-dessous?

> *« L'Allemagne est un empire jeune, en pleine croissance. Son commerce international connaît un essor rapide. L'Allemagne doit se doter d'une flotte puissante pour protéger ce commerce et défendre ses intérêts, même dans les mers les plus lointaines. »*

Source: *Essential Modern World History*, p. 9.

(A) les alliances
(B) la course aux armements
(C) l'impérialisme
(D) le nationalisme

12. Quelle bataille de la Première Guerre mondiale est le mieux représentée dans l'illustration ci-dessous?



Source: *Essential Modern World History,* p. 50

(A) la bataille de la Marne
(B) la bataille de la Somme
(C) la bataille de Tannenberg
(D) la bataille de Ypres

13. À quel grand événement avant le déclenchement de la Première Guerre mondiale se rapporte la citation ci-dessous?

> *« C'est maintenant ou jamais. Le tsar n'interviendra certainement pas, et s'il le fait, l'Allemagne sera aux côtés de l'Autriche. »*
> ***- Empereur Guillaume II***

(A) l'assassinat de François-Ferdinand
(B) l'invasion de la Belgique par l'Allemagne
(C) le mobilisation en Russie
(D) le nationalisme serbe

14. Comment la politique de la collectivisation forcée de Staline a-t-elle influé sur la vie des gens en Union soviétique?

(A) La nourriture était répartie plus équitablement entre les gens.
(B) L'industrialisation s'est beaucoup intensifiée.
(C) Les rations étaient minimes.
(D) La classe des koulaks a été pratiquement éliminée.

15. Quel énoncé décrit le mieux la révolution qui a éclaté en Russie en mars 1917?

(A) Les Bolcheviks se sont emparés du pouvoir.
(B) Le tsar Nicolas II a réussi à battre l'Armée rouge.
(C) Kerensky et la Douma ont formé un nouveau gouvernement.
(D) Le gouvernement provisoire a été renversé.

16. Pourquoi Staline a-t-il effectué des purges au début des années 1930?

(A) pour expulser d'Union soviétique tous les spécialistes étrangers
(B) pour éliminer les membres indésirables au sein du parti
(C) pour répondre aux critiques formulées contre sa politique d'industrialisation
(D) pour se plier au désir de certains Soviétiques qui aspiraient au capitalisme

17. Dans quel ordre se sont déroulés les événements pendant la Révolution russe?

1. Les Bolcheviks s'emparent des bureaux du téléphone et du télégraphe.
2. Le traité de Brest-Litovsk est signé.
3. Le communisme de guerre est établi.
4. Les communistes gouvernent la Russie.

(A) 1, 2, 3, 4
(B) 2, 3, 1, 4
(C) 3, 2, 1, 4
(D) 4, 2, 3, 1

18. Quel énoncé décrit le mieux le rôle de la Gestapo?

(A) éliminer tous les rivaux et les opposants d'Hitler
(B) maintenir la paix civile en Allemagne
(C) protéger les biens des Nazis en Allemagne
(D) assurer la protection personnelle d'Hitler

19. Quel a été le résultat de la Kristallnacht (Nuit de cristal)?

(A) Des restrictions supplémentaires ont été imposées aux Juifs allemands.
(B) Hitler a envoyé tous les Juifs dans les camps de concentration.
(C) La solution finale a été réalisée.
(D) Les lois de Nuremberg ont été ordonnées.

20. Quelle a été une des conséquences de la marche sur Rome?

(A) Mussolini a créé son armée de fidèles, les Chemises noires.
(B) Mussolini a fondé le journal socialiste l'Avanti.
(C) Mussolini a pris le contrôle de la presse et de la police.
(D) Mussolini s'est vu offrir le poste de Premier ministre de l'Italie.

21. Quel était le but principal du *New Deal* (Nouvelle Donne) du président Roosevelt?

(A) améliorer le commerce avec les pays étrangers
(B) offrir des soupes populaires et de l'aide aux pauvres
(C) faire travailler les gens dans des camps de secours
(D) stimuler l'économie et mettre fin à la crise

22. Quel énoncé décrit le mieux l'antisémitisme?

(A) la discrimination contre les gens de descendance juive
(B) l'élimination des races inférieures par le génocide
(C) la haine des Juifs et des autres peuples indésirables
(D) la persécution de toutes les races « différentes »

23. Quelle politique intérieure a été adoptée à la fois par Hitler et par Mussolini?

(A) la censure de la presse
(B) l'établissement du Parti nazi
(C) la persécution des Juifs et des communistes
(D) la reconnaissance de la religion catholique

24. Quel élément du marxisme est représenté par cette illustration?

Paysans et déserteurs en train de piller et de brûler la maison de campagne d'un noble en 1917.

Source: *Russia and the USSR 1900-1995*, p.16.

(A) Toutes les richesses doivent être partagées de façon égale.
(B) La révolution n'apportera que le chaos.
(C) La bourgeoisie renversera les nobles.
(D) Les classes inférieures se révolteront contre leurs maîtres.

25. Que révèle la citation ci-dessous sur l'état des relations entre Staline et Trotsky?

En janvier 1925, il a été relevé de ses fonctions de commissaire à la guerre sans être consulté et on lui a donné la responsabilité de l'électricité, afin de l'isoler du Parti en l'accablant d'un travail routinier.

Il n'a rien dit, et s'est lancé dans ses nouvelles fonctions avec son énergie habituelle.

Source: *Russia and the Revolution 1900-1995*, p. 28.

(A) Staline voulait diminuer le pouvoir et l'influence de Trotsky.
(B) Staline voulait que Trotsky occupe un poste moins stressant.
(C) Trotsky était la personne la plus compétente pour installer l'électricité en Russie.
(D) Trotsky était récompensé pour ses réalisations.

26. Quel territoire a été cédé à l'Allemagne aux termes de l'accord du pacte de Munich signé en 1938?

(A) l'Autriche
(B) la Tchécoslovaquie
(C) la Rhénanie
(D) les Sudètes

27. Quelle politique nazie a été adoptée pour garantir à l'Allemagne un nombre suffisant de territoires et favoriser ainsi sa croissance?

(A) l'Anschluss
(B) le Blitzkrieg
(C) le Lebensraum
(D) le pangermanisme

28. Quel élément du fascisme cette affiche illustre-t-elle le mieux?



Affiche nazie de 1934 – Le soldat SA est représenté comme un héros, adoré par les enfants et détesté par les Juifs.

Source: *Essential World History*, p. 350.

(A) être autosuffisant sur le plan économique
(B) sentiment de nationalisme extrême envers son pays
(C) posséder une force militaire puissante
(D) le pouvoir d'un dictateur

29. Quel pays était membre des Forces alliées au cours de la Seconde Guerre mondiale?

(A) l'Autriche
(B) l'Allemagne
(C) le Japon
(D) l'Union soviétique

30. Quel événement a donné à l'Union soviétique le temps de mobiliser l'Armée rouge et de produire du matériel militaire avant l'attaque allemande?

(A) le plan quinquennal
(B) le pacte germano-soviétique
(C) l'opération Barberousse
(D) la drôle de guerre

31. Quel énoncé définit l'Anschluss?

(A) l'annexion d'un pays par un autre
(B) la conquête d'un territoire par la guerre
(C) la partition d'un état
(D) un territoire conquis pour assurer la survie de l'état

32. Quel terme décrit la tactique employée pendant la Seconde Guerre mondiale consistant à envoyer des avions s'écraser sur les navires des Alliés?

(A) blitzkrieg
(B) kamikaze
(C) terrorisme
(D) guerre de tranchées

33. Quel terme décrit la « grande muraille de France » établie pour empêcher les attaques allemandes?

(A) le rideau de fer
(B) la ligne Maginot
(C) la drôle de guerre
(D) le plan Schlieffen

34. Quelle politique la citation ci-dessous décrit-elle?

> *« Il faut détruire tous les Juifs sans exception. Si nous ne parvenons pas à exterminer la base biologique des Juifs, ils détruiront un jour le peuple allemand. »*
> **-Himmler, chef des S.S., à Hoss, officier S.S.**

(A) l'épuration ethnique
(B) la solution finale
(C) les purges du parti
(D) les crimes de guerre

35. Quelle région était considérée par les Soviétiques comme une sphère d'influence?

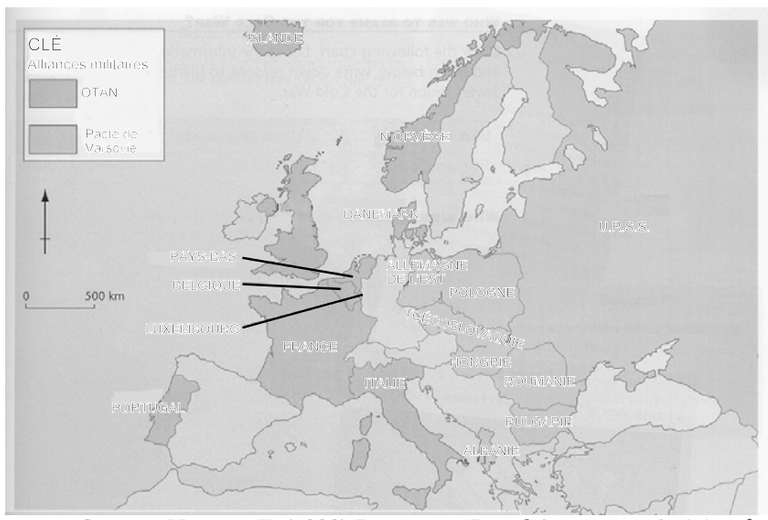

Source: Noonan, T. (1999) *Document -Based Assessment Activites for Global History Classes*, p. 124.

(A) l'Autriche et la Yougoslavie
(B) la région des Balkans
(C) l'Europe de l'Est
(D) l'Allemagne et la France

36. Comment s'appelle l'accord conclu entre le président Roosevelt et le Premier ministre Churchill afin de lutter contre la tyrannie nazie et de maintenir en place des gouvernements démocratiques?

(A) la Charte de l'Atlantique
(B) le pacte germano-soviétique
(C) la déclaration de Postdam
(D) les accords de Yalta

37. Que révèle cette citation sur la sécurité mondiale dans les années 1930?

> *« Dieu et l'histoire se souviendront de votre jugement…Aujourd'hui, c'est nous. Demain, ce sera vous. »*
> **- Haïlé Sélassié, empereur d'Éthiopie dans sa réponse à la Société des Nations (1936)**

Source: Walch, p. 116.

(A) L'Éthiopie est demeurée un pays indépendant.
(B) Les sanctions militaires ont permis de maintenir la paix et la sécurité.
(C) Les sanctions morales et économiques ont été efficaces.
(D) Les sanctions, de toutes natures, ont été inefficaces.

38. Quelle caractéristique de la politique d'apaisement pratiquée en 1939 reflète la citation ci-dessous?

> *«… Après la perte de Dantzig et du corridor polonais... La Pologne perdrait son accès à la mer, s'étiolerait et étoufferait. Il n'y a plus qu'un pas ensuite vers la Roumanie et ses champs de pétrole, la mer Noire, les Dardanelles, la Méditerranée et le canal de Suez, une des principales artères de notre empire…»*
>
> **- Un citoyen anglais - Lord Dawson à un ami, juillet 1939**

Source: R. Overy and A. Wheatcroft. (1939) *The Road to War*, p. 98.

(A) C'était une politique efficace de la Grande-Bretagne.
(B) La Grande-Bretagne ne se souciait pas de la Pologne.
(C) Elle a réussi à limiter les exigences d'Hitler envers la Grande-Bretagne.
(D) C'était une menace à la sécurité de la Grande-Bretagne.

39. À quelle grande bataille de la Seconde Guerre mondiale se rapporte l'énoncé ci-dessous?

> « *La capacité de la Grande-Bretagne à maintenir ses lignes de ravitaillement est un facteur décisif dans le résultat de la guerre.* »
>
> **- Amiral Dönitz, commandant de la Marine allemande**

Source: *Essential Modern World History*, p. 210.

(A) la bataille d'Angleterre
(B) la bataille de Midway
(C) la bataille de Stalingrad
(D) la bataille de l'Atlantique

40. Quelle grande campagne de la Seconde Guerre mondiale est representée sur la carte ci-dessous?

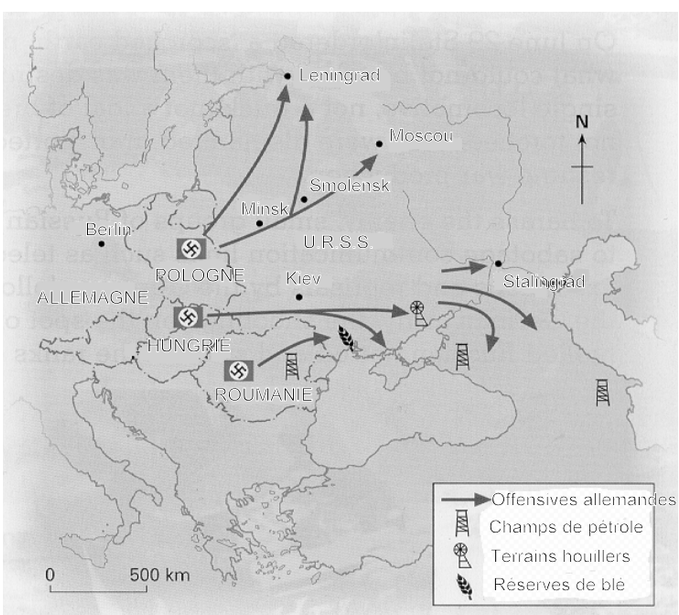

Source: *A World of Change*, p. 121.

(A) la bataille d'El-Alamein
(B) la bataille de Stalingrad
(C) l'opération Barberousse
(D) l'opération Overlord

41. Quel énoncé décrit le mieux l'effort déployé par les États-Unis pendant la Seconde Guerre mondiale?

Production pendant la Seconde Guerre mondiale (1939-1945)				
	Main-d'œuvre mobilisée	Porte-avions	Avions	Navires marchands (tonnes anglaises)
États-Unis	16 354 000	141	324 750	33 993 230
Japon	9 100 000	16	76 320	4 152 361

Source: J. Ellis. (1995) World War II Data Book p. 228, 278, 280

(A) la puissance industrielle était écrasante
(B) la marine était moins puissante
(C) était semblable à celui du Japon
(D) devait devenir l'arsenal de la démocratie

42. À quel aspect des Nations Unies se rapportent les extraits ci-dessous?

Extraits de la Charte des Nations Unies

But 3 – Résoudre les problèmes internationaux d'ordre économique, social, intellectuel ou humanitaire, en développant et en encourageant le respect des droits de l'homme et des libertés fondamentales pour tous.

Principe 7 - Aucune disposition de la présente Charte n'autorise les Nations Unies à intervenir dans des affaires qui relèvent essentiellement de la compétence nationale d'un état.

Source: 20th Century Viewpoints, 1st Edition, p. 165

(A) On peut avoir recours à la force pour protéger les droits humains dans les pays membres.
(B) Les Nations Unies peuvent intervenir dans les états membres afin de protéger les droits humains.
(C) Le respect des droits humains dans les pays membres est une responsabilité.
(D) Il est interdit de mettre fin à l'abus des droits humains dans les pays membres.

43. Quel énoncé décrit les Viêt-Congs?

(A) des troupes chinoises entraînées qui se battaient au Vietnam
(B) une force de guérilla communiste qui se battait contre les États-Unis
(C) des membres de l'armée du Sud-Vietnam
(D) une organisation en faveur de la réunification du Nord-Vietnam et du Sud-Vietnam

44. Quel énoncé résume le mieux les relations entre les États-Unis et l'Union soviétique
(A) pendant la guerre froide?
(B) constante communication entre les dirigeants politiques
(C) tension diplomatique et politique élevée
(D) coopération limitée en ce qui concerne les conflits internationaux conflits mineurs réglés par les Nations Unies

45. Quelle méthode ont d'abord essayée les États-Unis pour appliquer leur politique

(A) d'endiguement?
(B) intervention militaire directe
(C) aide économique
(D) sanctions économiques neutralité militaire

46. À quelle activité pratiquée pendant la guerre froide la citation ci-dessous fait-elle référence?

> *Dans cette nouvelle situation, les dirigeants du monde capitaliste se sont également rendu compte que la guerre froide est dépassée. On a besoin d'une nouvelle politique, réaliste et adaptée. Les dirigeants de l'Occident ont commencé à répondre à nos appels pour une coexistence pacifique.*
> **- Leonid Brezhnev, mai 1975**

Source: Essential Modern World History, p. 303.

(A) la politique de la corde raide
(B) l'endiguement
(C) la détente
(D) la prolifération nucléaire

47. Quel terme décrit l'utilisation de tactiques de guerre non conventionnelle, comme les détournements d'avion, les attentats à la voiture piégée et les bombes humaines?

(A) le mécontentement civil
(B) l'extorsion
(C) la guerre moderne
(D) le terrorisme

48. Quel énoncé décrit le mieux les efforts déployés par les pays pour acquérir la capacité nucléaire?

> *En plus de son million de soldats, son (la Corée du Nord) armée active compte 3 500 chars de combat, 10 000 pièces d'artillerie lourde... La Corée du Nord possède aussi certainement au moins six armes nucléaires, ... et son programme nucléaire pourrait lui permettre de produire des dizaines d'autres missiles au cours des prochaines*

Source: G. York, The Globe and Mail, Sept. 23, 2003

(A) l'émergence de nouvelles puissances nucléaires augmente la paix et la sécurité dans le monde
(B) l'émergence de nouvelles puissances nucléaires dimi nue la paix et la sécurité dans le monde
(C) l'émergence de nouvelles puissances nucléaires augmente la paix et la sécurité dans les régions.
(D) l'émergence de nouvelles puissances nucléaires diminue la paix et la sécurité dans les régions

Répondez aux questions de la section 5.1 ou 5.2 en fonction de ce qui a été étudié en classe.

Section 5.1 Inde, Égypte et Afrique du Sud

49. Quel terme décrit la capacité d'un peuple à choisir son propre avenir politique?

(A) la démocratie
(B) la liberté
(C) le nationalisme
(D) l'autodétermination

50. Dans le graphique ci-dessous, qu'est-ce qui montre le mieux l'effet de l'apartheid en Afrique du Sud sur les relations entre les races?

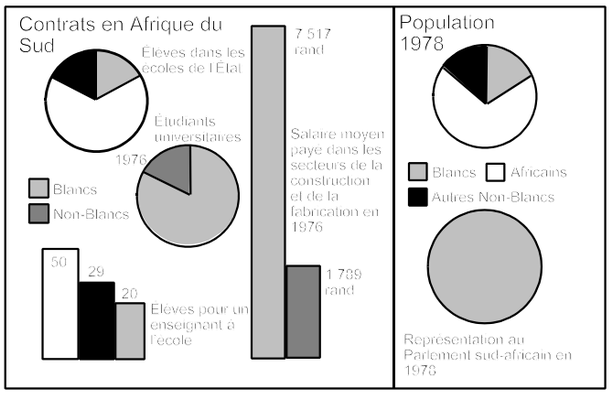

(A) l'apartheid n'a pas réussi à intégrer les Blancs et les non-Blancs
(B) intégration culturelle des non-Blancs en Afrique du Sud
(C) discrimination fondée sur la race en Afrique du Sud
(D) égalité des races dans certains domaines seulement

Section 5.2 Moyen-Orient

49. Quel terme décrit le mieux le fondamentalisme islamique ou intégrisme?

(A) les manifestations des Palestiniens contre le pouvoir israélien
(B) la haine des Juifs
(C) la rébellion contre toute autorité
(D) le rejet de l'occidentalisation

50. Quel énoncé reflète le mieux l'attitude des États-Unis devant l'invasion du Koweït par l'Iraq comme l'indiquent les résolutions ci-dessous?

Août 1990

Adoption par les Nations Unies de la Résolution 660 qui demande à l'Iraq de retirer immédiatement et inconditionnellement toutes ses forces pour les ramener aux positions qu'elles occupaient le 1er août 1990.

Novembre 1990
Adoption par les Nations Unies de la Résolution 678 qui « autorise les états membres qui coopèrent avec le Gouvernement koweïtien, si au 15 janvier 1991 l'Iraq n'a pas pleinement appliqué les résolutions susmentionnées conformément au paragraphe 1 ci-dessus, à user de tous les moyens nécessaires pour faire respecter et appliquer la résolution 660 (1990) et toutes les résolutions pertinentes adoptées ultérieurement et pour rétablir la paix et la sécurité internationales dans la région ».

En d'autres mots, cette résolution autorise le recours à la force pour obliger l'Iraq à se retirer du Koweït.

(A) ont désapprouvé l'invasion par une résolution du Conseil de sécurité.
(B) sont restés indifférents à la situation désespérée du Koweït.
(C) ont appuyé sans réserve l'invasion.
(D) ne voulaient imposer que des sanctions morales et économiques.

Partie II
Valeur totale : 50 %

Instructions : Répondez à TOUTES les questions dans l'espace prévu à cette fin.

Valeur

5% 51. En vous servant de la source ci-dessous et de vos connaissances en histoire, expliquez ce qu'était la guerre des tranchées sur le front occidental?

> Extrait d'un poème sans titre écrit par Sidney Chaplin, qui servait dans le 4e bataillon du Régiment Gloucestershire.
>
> Vous êtes debout dans une tranchée de boue puante,
> Et le vent glacial vous gèle jusqu'au sang.
> Puis les fusils se mettent à crépiter et les flammes illuminent le ciel,
> Et pendant que vous surveillez, des rats courent à vos pieds.
>
> Haig et sa bande se la coulent douce à l'arrière,
> Vivant dans le luxe, bien à l'abri dans le vieux Saint-Omer,
> Se pavanant avec leurs languettes rouges, leurs galons et leurs rubans.

Source: The Trenches, p. 42.

Valeur
5% 52. En vous servant de la source ci-dessous et de vos connaissances en histoire, évaluez les conséquences du Traité de Versailles pour l'Allemagne pendant l'après-guerre.

> « Les Alliés sont en train de plonger un couteau dans le corps vivant du peuple allemand. Cette proposition de paix signifie le triste asservissement d'un peuple fier. »
> **- Heinrich Schneiderman, 1919**

Source: Essential Modern World History , p. 124.

Valeur
10 % 53. En vous servant des documents ci-dessous et de vos connaissances en histoire, expliquez les méthodes utilisées par Joseph Staline pour contrôler le peuple soviétique.

Source 1

« Et il n'est rien de sacré lors d'une perquisition! Lorsqu'on vint arrêter le mécanicien de locomotive Inochin, il y avait dans sa chambre un petit cercueil contenant le corps de son enfant qui venait de mourir. Nos " juristes " jetèrent l'enfant hors du cercueil, les recherches s'étendirent jusque-là. »

- Alexandre Soljénitsyne, L'Archipel du Goulag

Source: Russia and the USSR, p. 46.

Source 2

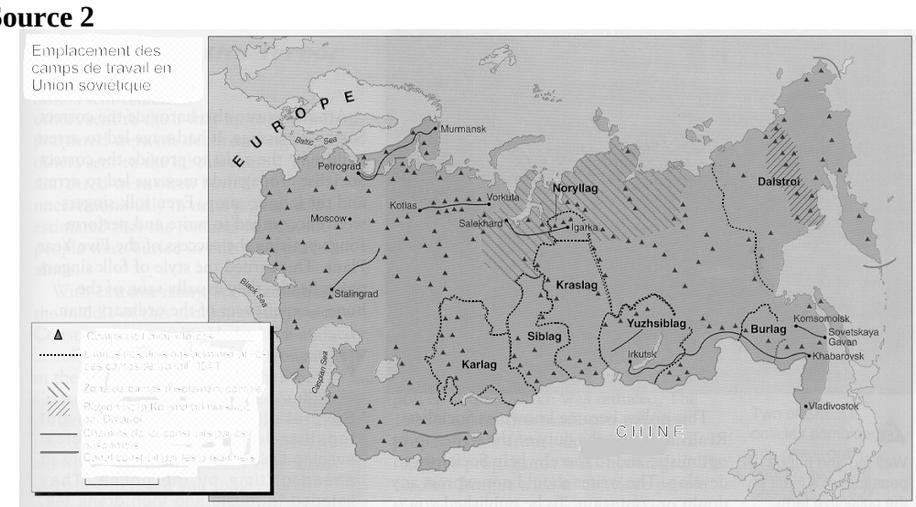

Source: Russia and the USSR, p. 49.

Valeur
10% 54. En vous servant des sources ci-dessous et de vos connaissances, évaluez l'efficacité de la politique d'apaisement pratiquée dans les années 1930.

Source 1

…ni le peuple ni le gouvernement [de Grande-Bretagne et de France] n'avaient de raison de penser à la guerre... Avant le 1er septembre 1939, Hitler n'avait rien fait qu'une grande puissance aurait pu considérer comme suffisamment dangereux pour justifier le début d'un grand conflit européen. Il n'y avait pas non plus de coalition qui aurait pu opposer à Hitler de forces massives. La Grande-Bretagne voulait apaiser Hitler, et les Français craignaient une répétition des sacrifices sanglants de 1914-1918. Staline voulait en arriver à un accord avec Hitler sur la partition de l'Europe, et les États-Unis rejetaient toute responsabilité quant à l'Europe.

Source: Eubank, K. Origins of World War II.

Source 2

L'accord de Munich était un acte désespéré de conciliation posé au détriment de la Tchécoslovaquie par Chamberlain et Daladier, le Premier ministre français, dans l'espoir vain de pouvoir satisfaire l'ambition belliqueuse d'Hitler, et ainsi, garantir la paix en Europe. Nous savons aujourd'hui que c'était inutile parce que les défenses tchèques étaient très fortes, et que les généraux allemands, conscients de la faiblesse relative de l'Allemagne à ce moment-là, étaient en fait prêts à se débarrasser d'Hitler si ce dernier avait continué à vouloir la guerre.

Source: Kennan, G. (1961) Russia and the West Under Lenin and Stalin.

Valeur
5% 55. En vous servant de la source ci-dessous et de vos connaissances, expliquez si la guerre de Corée était une mission de paix entreprise par les États-Unis ou un exemple de la politique américaine de l'endiguement.

Forces des États-Unis en Corée			
	É.-U.	**Autre pays des Nations Unies***	**Corée du Sud****
Force terrestre	50%	10%	40%
Force navale	86%	7%	7%
Force aérienne	93%	2%	5%

* Comprend le Canada et 14 autres pays; le Canada a envoyé 25 583 soldats; le nombre des victimes étaient de 1 642, dont 406 morts.

** La Corée du Sud ne devint membre de l'ONU qu 'en 1991.

Source: 20th Century Viewpoints, 2e édition, p. 190.

Valeur
5% 56. En vous servant de la source ci-dessous et de vos connaissances, expliquez comment les relations entre l'Union soviétique et les pays de l'Ouest, qui se fondaient sur la coopération pendant la Seconde Guerre mondiale, se sont transformées.

Réponse de Staline au discours de Churchill sur le Rideau de fer, 1946

M. Churchill se pose en fauteur de guerre et il n'est pas seul. Il a des amis non seulement en Grande-Bretagne, mais également aux États-Unis. À cause de l'invasion allemande, l'Union soviétique a subi des pertes de vie infiniment plus importantes que celles de la Grande-Bretagne et des États-Unis cumulées. Qui a t-il donc de surprenant à ce que l'Union soviétique, soucieuse de sa sécurité dans l'avenir, veuille s'assurer que des gouvernements qui lui sont fidèles soient établis dans les pays par lesquels les Allemands sont passés pour l'envahir? Nous ne sommes pas des

Source: Essentials of Modern World History, p. 233.

Valeur
5% 57. En vous servant de la source ci-dessous et de vos connaissances de l'histoire, expliquez la menace que représentent les terroristes pour la paix et la sécurité dans le monde.



Soldats israéliens interrogeant un jeune garçon palestinien arrêté, à qui ils ont demandé de se déshabiller et qui portait des explosifs.

Source : Journal de mars 2004.

Répondez à la question 58 **OU** 59 en fonction de ce qui a été étudié en classe.

Section 5.1 Inde, Égypte et Afrique du Sud

Valeur
5% 58. En vous servant de la source ci-dessous et de vos connaissances, expliquez les causes de la crise du canal de Suez en 1956.

> *« La révolution égyptienne a mis fin à l'impérialisme britannique et a apporté l'indépendance à l'Égypte. Elle a défini le caractère arabe de l'Égypte et a engendré un profond changement dans la façon de vivre arabe. Elle a confirmé le contrôle par les Égyptiens de leurs ressources et le produit de leur action nationale. »*

Source: 20th Century Viewpoints, 2nd Edition, p. 193.

Section 5.2 Moyen-Orient

Valeur

5% 59. En vous servant de la source ci-dessous et de vos connaissances, expliquez comment la partition de la Palestine en 1948 a mené au conflit israélo-arabe (1948-1973).

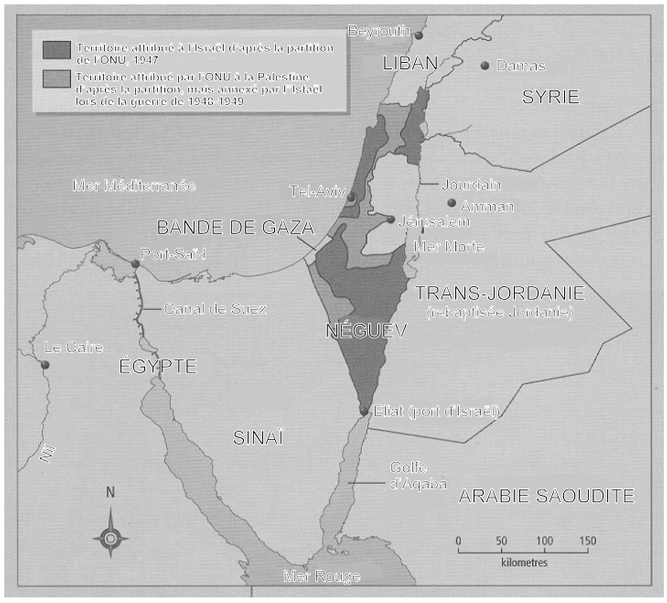

Source: 20th Century Viewpoints, 2nd edition, p. 359.